سلم تصحيح امتحان الكيمياء العضوية - ١
لطلاب السنة الثانية كيمياء فصل ثاني 2025

الدرجة النهائية	
رقماً	كتابة
توقيع أستاذ المقرر:	

اسم الطالب
الرقم

امتحان مقرر الكيمياء العضوية١
السنة الثانية كيمياء / المدة: ساعتان/ الدرجة:70
الفصل الثاني 2025

رقم السؤال	الدرجة رقماً	الدرجة كتابةً
السؤال الأول		
السؤال الثاني		
السؤال الثالث		
السؤال الرابع		
السؤال الخامس		
السؤال السادس		
السؤال السابع		
المجموع		

اسم المدقق وتوقيعه:

أجب عن الأسئلة التالية على نفس ورقة السؤال مع الاستفادة من خلف الصفحة كمسودة و لا تصحح :

س1-أ-أحسب الشحنة الفعلية (الكلية) لكل من الدقيقتين $CH_3CH_2\text{-}NH_2$ ، CH_3OH بعد كتابة صيغتي لويس الموافقتين :

(3)

الشحنة الفعلية = (مجموع إلكترونات التكافؤ للذرة الحرة) - (مجموع إلكترونات التكافؤ في صيغة لويس)

صيغة لويس = $CH_3\text{-}CH_2\text{-}NH_2$

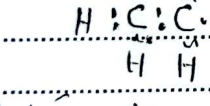

الشحنة الفعلية = $(20) - (5\times1 + 4\times2 + 1\times7) = 0$ الجزيء متعادل

(3)

الشحنة الفعلية = $(14) - (6\times1 + 4\times1 + 1\times4) = 0$ الجزيء متعادل

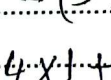

(6 علامات)

ب – اكتب الصيغ البنيوية للمركبات الموافقة للصيغة المجملة C_4H_9Br بعد حساب عدد عدم الاشباع .

عدد عدم الإشباع = (عدد ذرات الهيدروجين في الجزيء الطرحي) - (عدد ذرات الهيدروجين في المركب)

صيغة الجزيء الطرحي C_4H_{10} صيغة الجزيء المدروس C_4H_9Br من المعطيات

عدد ذرات الهيدروجين في صيغة الجزيء المركب C_4H_{10}

عدد عدم الإشباع = $\frac{10-10}{2} = 0$ الجزيء المدروس مشبع أو حلقي

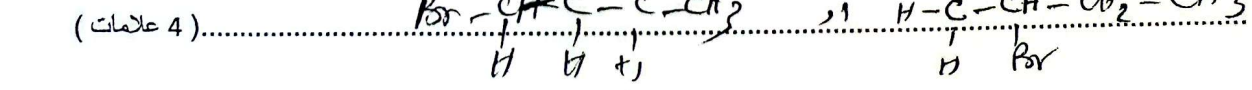

(4 علامات)

جامعة دمشق العلوم

س2 -وضح باختصار كل مما يلي : (6 علامات)

أ – درجة غليان الاتان تيول أخفض من درجة غليان الاتانول : (2)

ب – يعد الانيلين أساساً أضعف من النشادر : (2)

ج- الالكانات مركبات قليلة الفعالية الكيميائية : (2)

س 3 -اكتب معادلات التفاعلات التالية : (10علامات)

- تفاعل كلايسن – شميت : (2)

- تفاعل نترجة البنزن : (2)

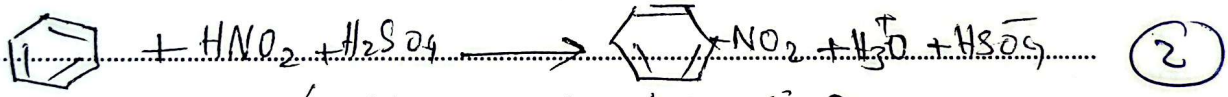

- تفاعل ديازة الانيلين : (2)

- تفاعل فورتز فيتيغ : (2)

- تفاعل كانيزارو : (2)

جامعة دمشق كلية العلوم

س4-أ- سم المركبات التالية حسب قواعد التحاد الدولي للكيمياء البحتة و التطبيقية (IUPAC) : (20 علامة)

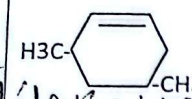 (2)	$CH_3N(CH_3)_2$ (2)	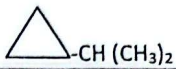 (2)
CH_3-S- CH_3 (2)	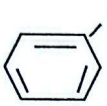 (2)	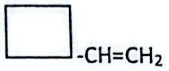 (2)

ب -اكتب الصيغ البنيوية للمركبات التالية:

بروباتوات ثالثي البوتيل : (2)

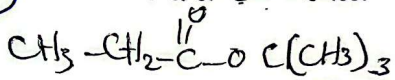

البوتانال : (2)



اورتو الكزيلين : (2)

حلقي هيكسيل البنزن : (2)

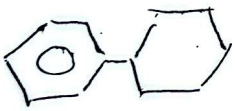

س5- اكمل تفاعلات الاليات التالية : (8 علامات)

أ- الية ضم الهالوجينات الى الالكنات :

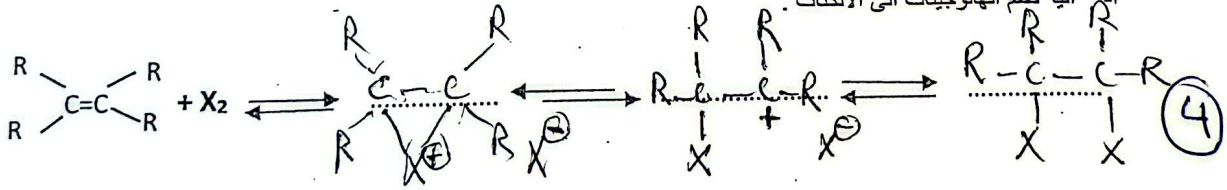

ب- الية تفاعل التبادل النيكليوفيلي على كربون الكربونيل للحموض الكربوكسيلية :

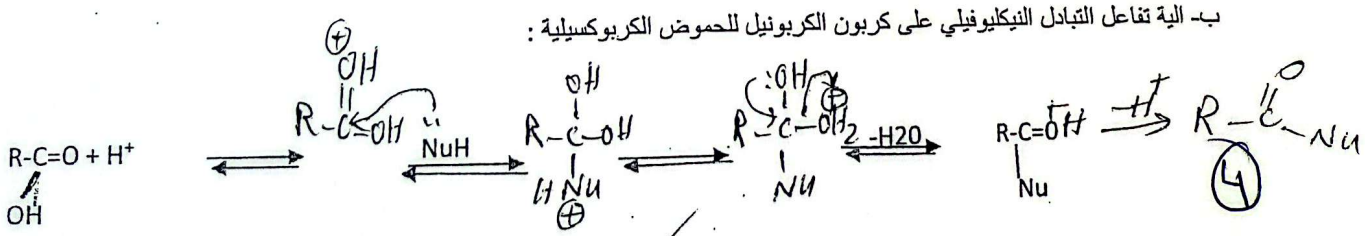

جامعة دمشق
كلية العلوم

س6- اكمل التفاعلات التالية : (8 علامات)

A. $H_3C-C(CH_3)=CH_2 + H_2O \longrightarrow H_3C-C(CH_3)(OH)-CH_3$ + ... (2)

B. $HC\equiv C^-Na^+ + CH_3Br \longrightarrow HC\equiv C-CH_3 + NaBr$ (2)

C. $CH_3-CO-OH + SOCl_2 \longrightarrow CH_3-C(=O)-Cl + SO_2 + HCl$ (2)

D. $HO-C_6H_5 + C_2H_5I \xrightarrow[HEAT]{NaOH} C_6H_5-O-C_2H_5 + HI$ (2)

س7- اشر الى الكواشف التي تسمح بالتحولات التالية : (8 علامات)

a) $R-C\equiv C-R \xrightarrow[OH^-,\ 25C^\circ]{KMnO_4} 2R-C(=O)-OH$ (2)

b) $R-O^-Na^+ \xrightarrow[-NaX]{R'X} R-O-R'$ (2)

c) $CH_3-C(=O)-CH_3 \xrightarrow[2)\ CH_3Br]{1)\ KNH_2} CH_3-C(=O)-CH_2-CH_3$ (2)

d) $C_6H_6 \xrightarrow[AlCl_3]{CH_3Cl} C_6H_5-CH_3$ (2)

انتهت الأسئلة مع التمنيات بالنجاح