سلم تعبير أسئلة امتحان مقر المدخل إلى تزياد الجسم إصلاح
الشبكة البلورية تزياد - إصلاح الدراسي البلوري ...

● إجابة السؤال الأول : (25 درجة)

نتطلب بند من الأول منادة تعيين عدد نقطة وبلورات الأول وعددها في الشبكة المكعبة للكعب مركزي الوجوه FCC.

ويتطلب البند الأول (15 درجة)

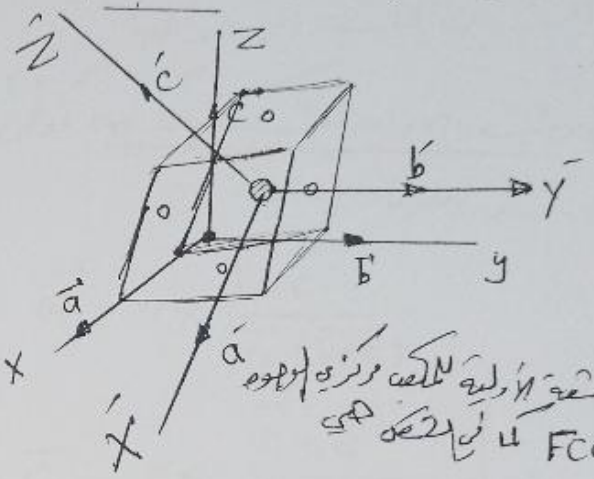

- الأشعة الأولية للكعب مركزي الوجوه هي الأشعة في الشبكة FCC

$\vec{a} = \frac{1}{2}a(\vec{e}_x + \vec{e}_y)$; $\vec{b} = \frac{1}{2}a(\vec{e}_y + \vec{e}_z)$

$\vec{c} = \frac{1}{2}a(\vec{e}_z + \vec{e}_x)$. (4 درجات)

- حجم الخلية البدائية في الفراغ العادي للكعب FCC هو:

$\Omega = |\vec{a}\cdot(\vec{b}\wedge\vec{c})| = \frac{1}{4}a^3$ (3 درجات)

- الأشعة الأولية للشبكة العكسية هي:

$\vec{G}_1 = \frac{2\pi}{a}(\vec{e}_x + \vec{e}_y - \vec{e}_z)$

$\vec{G}_2 = \frac{2\pi}{a}(-\vec{e}_x + \vec{e}_y + \vec{e}_z)$ } (4 درجات)

$\vec{G}_3 = \frac{2\pi}{a}(\vec{e}_x - \vec{e}_y + \vec{e}_z)$.

يتبين التمرين أخيرا أن الأشعة الأولية العادية للكعب BCC كما تمثل الأشعة الأولية للشبكة العكسية مركزية الوجوه FCC

معطيا بالنسبة $4\pi/a$، أن الأشعة الأولية للشبكة العكسية لكعب مركزي BCC كما تمثل الأشعة الأولية العادية للشبكة المكعبة مركزية الوجوه FCC معطيا نفس النتيجة السابقة.

- حجم الخلية البدائية للشبكة العكسية هو:

$\Omega = |\vec{G}_1\cdot(\vec{G}_2\wedge\vec{G}_3)| = 4\left(\frac{2\pi}{a}\right)^3$ (4 درجات)

البند الثاني منادة توضيح مفهوم العيوب النقطية في بلورات الجسم الصلب

يعطى له 10 درجات

● العيوب النقطية: تتمثل بالشوائب والعيوب النقطية الأصيلة

- الشوائب: هي ذرات دخيلة على بلورة نقية تماثل ولها أحجام عديدة (3 درجات)

- العيوب النقطية الأصيلة وتتمثل بما يلي: (7 درجات)

• الفجوة: هي نقص ذرة من مكانها النظامي في الشبكة ووضع ذرة إضافية على السطح بحيث تحافظ البلورة على عدد ذراتها.

• عيوب شوتكي: تحدث على الجوانب من نوعين متقاربين

• الخلوة: هي ذرة أو أيون خرجت من داخل البلورة

• عيوب فرنكل: عبارة عن زوج متولف من فجوة ناشئة عن نوع من الذرات وخلوة من نفس النوع.

- انتهت أجوبة السؤال الأول -

② إجابة السؤال الثاني : (25 درجة)

يتضمن شقين ، يُعطى الأول 15 درجة
والثاني 10 درجات

الشق الأول: معادة بيانات نقطية للإشعة الواردة للشبكة البلورية، مع خواصها

الإشعة الواردة للشبكة البلورية تُعطى وفق العلاقات التالية:

$$\vec{G_1} = 2\pi \frac{\vec{b} \wedge \vec{c}}{\vec{a}.(\vec{b} \wedge \vec{c})}$$

$$\vec{G_2} = 2\pi \frac{\vec{c} \wedge \vec{a}}{\vec{a}.(\vec{b} \wedge \vec{c})}$$

$$\vec{G_3} = 2\pi \frac{\vec{a} \wedge \vec{b}}{\vec{a}.(\vec{b} \wedge \vec{c})}$$

} 6 درجات

خواص الإشعة الواردة للشبكة البلورية تعطى وفق العلاقات التالية:

$$\vec{G_1}\vec{a} = 2\pi \; ; \; \vec{G_2}.\vec{a} = 0 \; ; \; \vec{G_3}.\vec{a} = 0$$

$$\vec{G_1}.\vec{b} = 0 \; ; \; \vec{G_2}\vec{b} = 2\pi \; ; \; \vec{G_3}.\vec{b} = 0$$

$$\vec{G_1}.\vec{c} = 0 \; ; \; \vec{G_2}.\vec{c} = 0 \; ; \; \vec{G_3}.\vec{c} = 2\pi$$

} 9 درجات

الشق الثاني من السؤال: معادة

الطرق التجريبية للإشعة السينية في البلورات وكيفية استخدامها هي

- **طريقة لاوي:** تستخدم لتحديد التناظر واتجاه البلورة وكذلك التشوهات والعيوب التي تنشأ عند الإجهاد الميكانيكي أو الحرارية للبلورات
- **طريقة البلورة الدوارة:** تستخدم لتحديد البنية البلورية للبلورات
- **طريقة المسحوق:** تستخدم لتحديد البنية البلورية للبلورات وتختلف عن الطريقة السابقة حيث تكون العينة البلورية بلورة واحدة وتستخدم مسحوقاً يحتوي على عدد كبير من البلورات.

} 10 درجات

— انتهت إجابة السؤال الثاني —

② إجابة السؤال الثالث: (20 درجة)

يتكون بندين يقع البند الأول 6 درجات والثاني 14 درجة

- البند الأول تسمية البلورات كما يلي:

المادة المكعبة وجه FCC

المادة المكعبة حجم BCC

المكعبات البلورية بسيط SC

- البند الثاني مادة شرط التعادل الكهربائي للبلورة تضع ناقل شوائب مانحة وآخذة بأن واحد.

- الإلكترونات الحرة n مع أيونات الشوائب الآخذة N_a^- تشكل الشحنة السالبة أي:

$(n + N_a^-)\bar{e}$ درجات

- الثقوب الحرة p مع أيونات الشوائب المانحة N_d^+ تشكل الشحنة الموجبة أي:

$(p + N_d^+)e^+$ درجات

- شرط التعادل الكهربائي للمادة: مجموع الشحنة الموجبة والسالبة يساوي الصفر، أي:

$(n + N_a^-)\bar{e} + (p + N_d^+)e^+ = 0$ درجات

باعتبار $e = -\bar{e}$ يكون:

$(n + N_a^-) - (p + N_d^+) = 0$ درجات

وهو شرط التعادل الكهربائي

- في حالة إذا كانت المادة تحقق التعادل الكهربائي تكون:

$n = p + N_d^+$ درجات

- في حالة إذا كانت المادة تحقق المعادلة التعادل الكهربائي بالشكل:

$p = n + N_a^-$ درجات

- سوية فيرمي في هذه الحالة تكون:

$E_F = \frac{E_a + E_d}{2}$ درجات

E(eV)



(30 درجة)

إجابة السؤال الرابع

تتضمن دراسة السعة الحرارية C_v للشبكة البلورية وفق نظرية ديباي وبناءً على فكرة الوسيطة للطاقة الداخلية للمجلة الهتزازية وبناءً عليه تكون C_v عند درجات الحرارة المرتفعة والمنخفضة

في نموذج ديباي تم اعتماد أعلى اهتزاز مختلفة لذرات الشبكة البلورية وبتواترات مختلفة وانتشر في المجال

$$\omega_{min} \leq \omega \leq \omega_{max} \quad ①$$

الكمية الوسيطة للطاقة الداخلية الإهتزازية للمجلة تعطى بالعلاقة:

$$\langle U \rangle = \int_{\omega_{min}}^{\omega_{max}} g(\omega) \langle \epsilon(\omega) \rangle d\omega \quad ③$$

* (5 درجات)

- الطاقة الداخلية الإهتزازية للمجلة $\langle U \rangle$

$$\langle U \rangle = 9NkT\left(\frac{T}{\Theta_D}\right)^3 \int_0^{\frac{\Theta_D}{T}} \frac{x^3}{e^x - 1} dx \quad ④$$

- السعة الحرارية C_v تعطى:

$$C_v = 9Nk\left(\frac{T}{\Theta_D}\right)^3 \int_0^{\frac{\Theta_D}{T}} \frac{x^4 e^x}{(e^x-1)^2} dx$$

- عند درجات الحرارة المنخفضة $T \ll \Theta_D$

$$\left(\frac{T}{\Theta_D}\right)^3 \left(\frac{\Theta_D}{T}\right) = 32 \quad ⑤$$

- عند درجات الحرارة المرتفعة $T \gg \Theta_D$

$$C_v = 12\pi^4 Nk\left(\frac{T}{\Theta_D}\right)^3$$

تبين العلاقة ⑥ أن السعة الحرارية C_v تتناسب بالتقريب مع درجة الحرارة المناسبة T وهذا يتناسب تماماً مع T^3 وهو في تقريب ديباي، بينما الشكل (1) فيظهر السعة الحرارية C_v تتغير درجة الحرارة وهذا تقريباً في تقريب ديباي حيث يعطي توافقاً كبيراً مع النتائج التجريبية الشكل (2)



شكل (1)

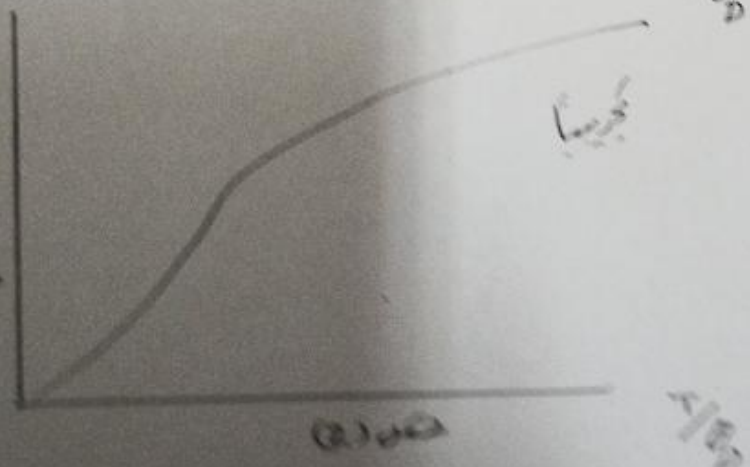

شكل (2)

- انتهت إجابة السؤال الرابع -